Exercice d'application : anticorps et antigènes

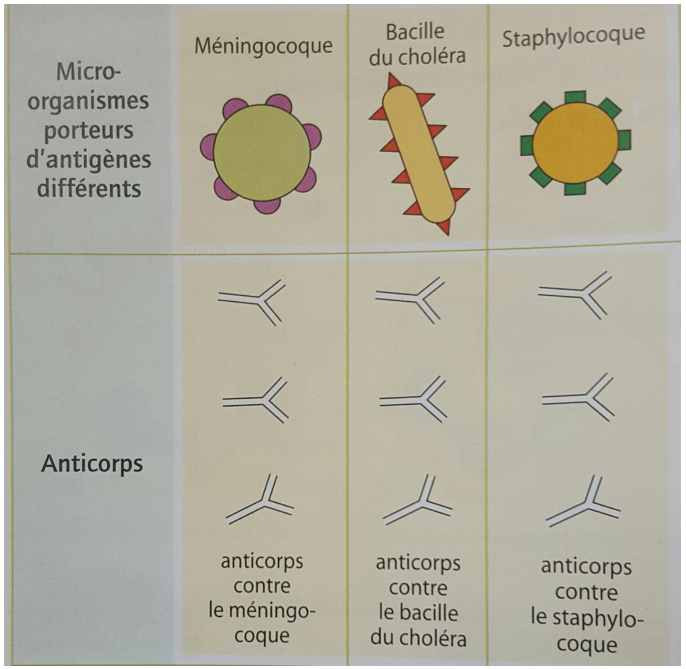

1. Complète les dessins des anticorps (les deux bouts des branches du Y) afin qu'ils puissent neutraliser les micro-organismes représentés.
2. Explique pourquoi les anticorps contre les staphylocoques ne peuvent pas neutraliser les méningocoques.

……
……
……
……
……
……
……
……
……

Exercice d'application : anticorps et antigènes

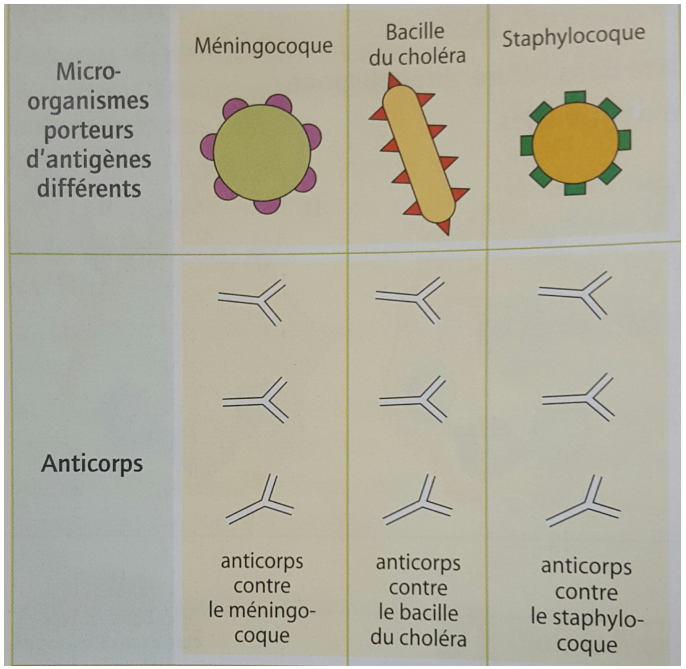

1. Complète les dessins des anticorps (les deux bouts des branches du Y) afin qu'ils puissent neutraliser les micro-organismes représentés.
2. Explique pourquoi les anticorps contre les staphylocoques ne peuvent pas neutraliser les méningocoques.

……
……
……
……
……
……
……
……
……

Exercice d'application : anticorps et antigènes

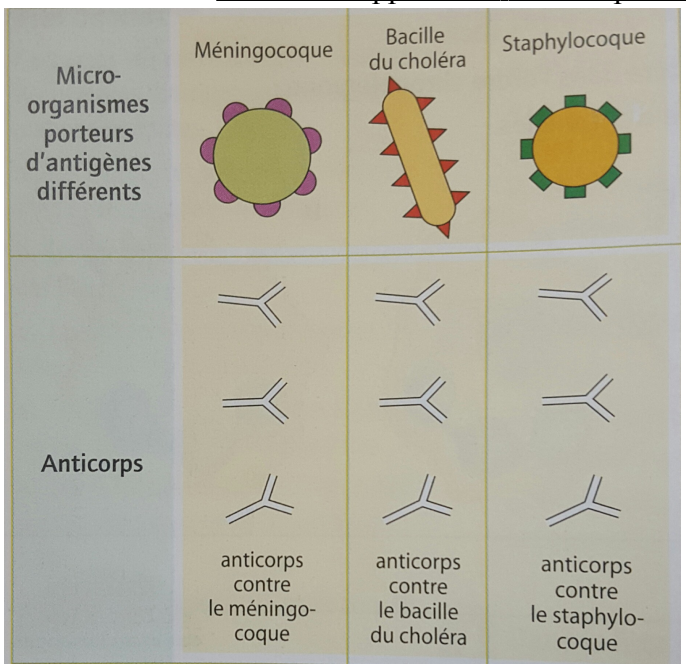

1. Complète les dessins des anticorps (les deux bouts des branches du Y) afin qu'ils puissent neutraliser les micro-organismes représentés.
2. Explique pourquoi les anticorps contre les staphylocoques ne peuvent pas neutraliser les méningocoques.

……
……
……
……
……
……
……
……
……

.

Exercice d'application : anticorps et antigènes

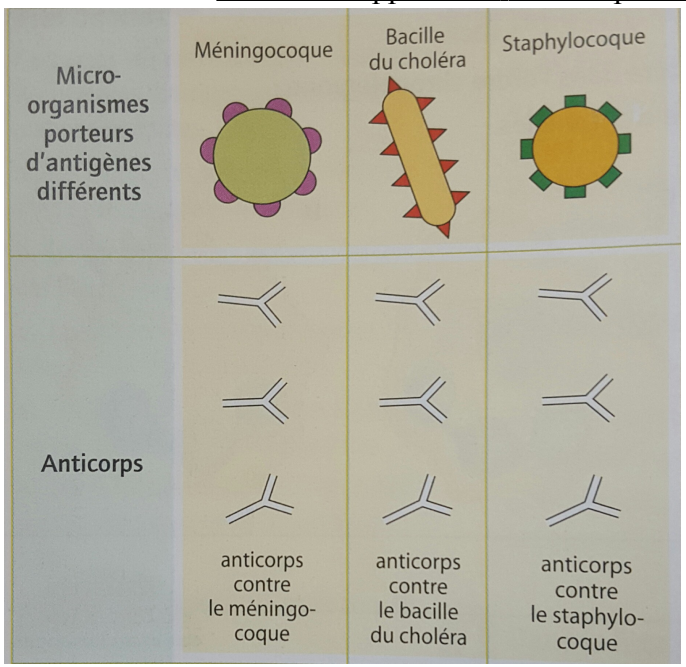

1. Complète les dessins des anticorps (les deux bouts des branches du Y) afin qu'ils puissent neutraliser les micro-organismes représentés.
2. Explique pourquoi les anticorps contre les staphylocoques ne peuvent pas neutraliser les méningocoques.

……
……
……
……
……
……
……
……
……

.